Развивающие задания по математике
группа «Лилия»

1. Вишнёвая считалочка

На каждой тройке вишенок напиши цифры так, чтобы получилась сумма, указанная на листочке

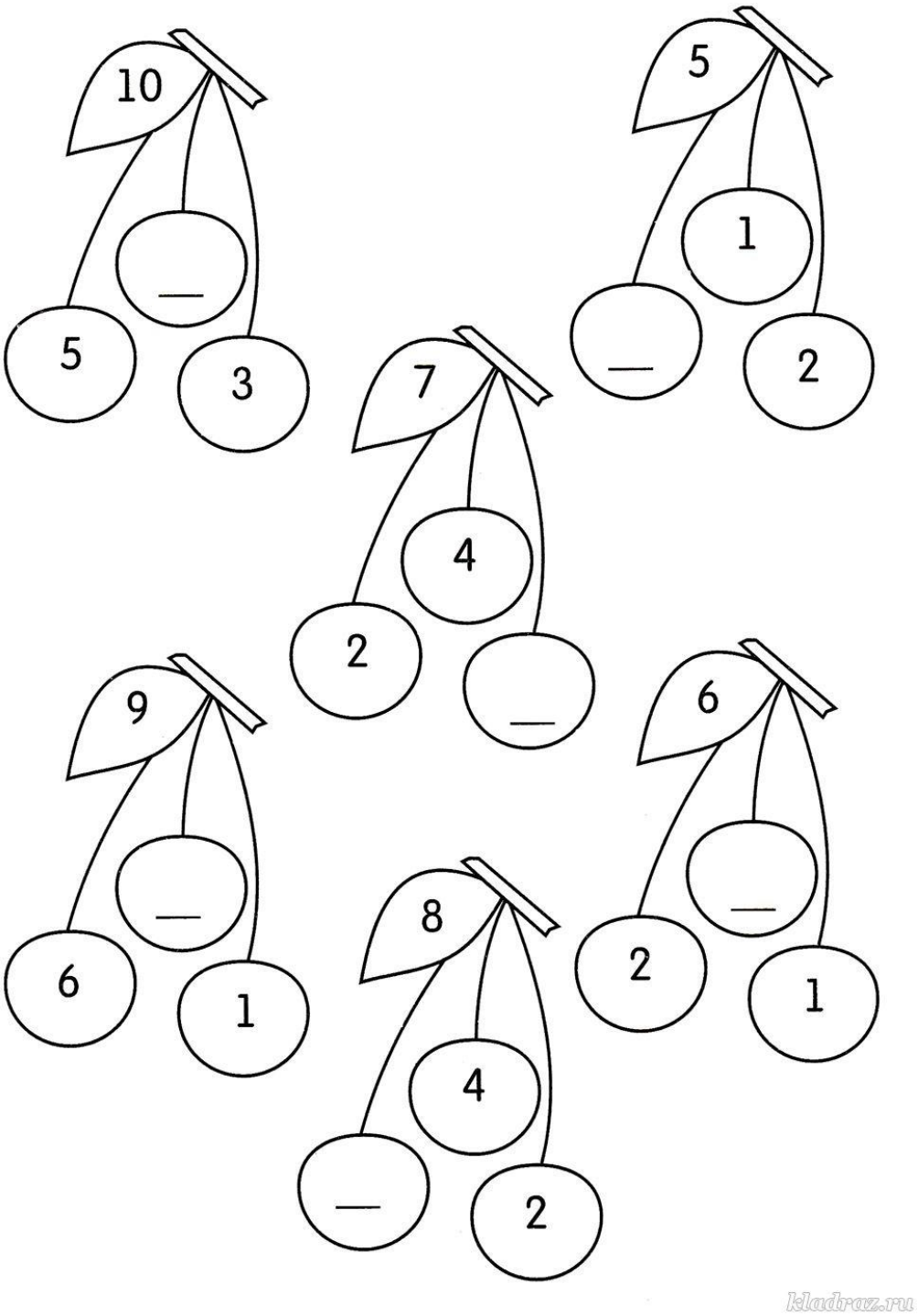

2. Змеи

Сколько здесь змей? Ответ впиши в окошко

kladraz.ru

3. Один за другим

Напиши цифры в правильном порядке

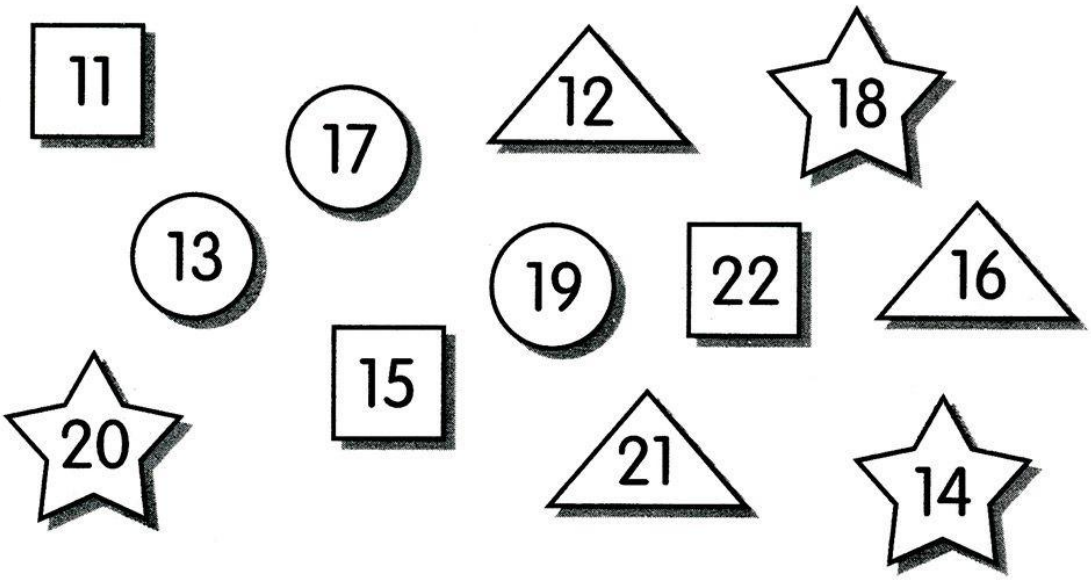

kladraz.ru

4. Считалочка

Посмотри на картинку и напиши, сколько яиц разбилось



23 – = 18

kladraz.ru

5. Дворец из фигурок

Сколько здесь фигурок каждой формы? Ответы напиши над чёрточками. Раскрась картинку.



kladraz.ru

Список литературы:

https://kladraz.ru/podgotovka-k-shkole/zadanija-po-matematike-v-kartinkah-dlja-detei-6-7-let.html